Zeichenuhr – Flächen zeichnen

1 Verbinde die Punkte mit einem Lineal. Wie heißen die Flächen?

1 – 6 – 11 – 1

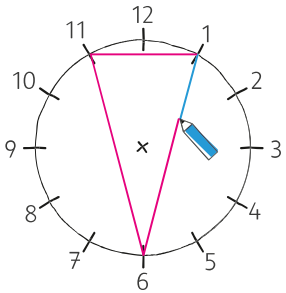

Dreieck

2 – 4 – 8 – 10 – 2

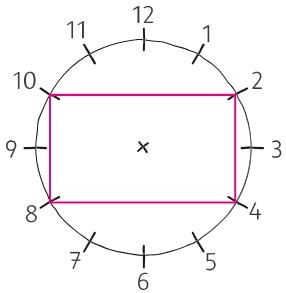

Rechteck

1 – 4 – 7 – 10 – 1

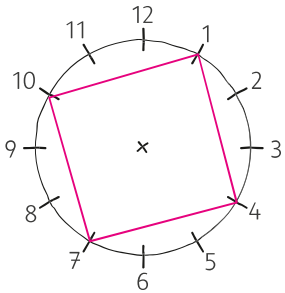

Quadrat

2 Verbinde die Punkte mit einem Lineal. Gestalte farbig.

1 – 5 – 9 – 1 und 3 – 7 – 11 – 3

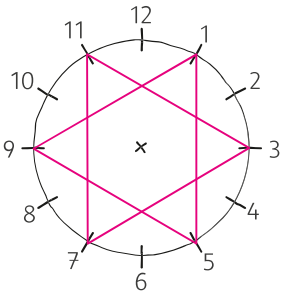

12 – 2 – 4 – 6 – 8 – 10 – 12 und 12 – 4 – 8 – 12

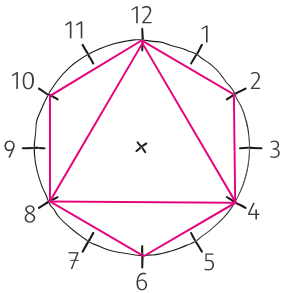

12 – 3 – 6 – 9 – 12, 1 – 4 – 7 – 10 – 1 und 2 – 5 – 8 – 11 – 2

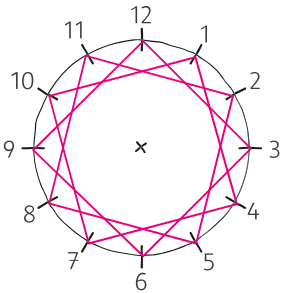

1–2 Punkte in den Zeichenuhren zu geometrischen Formen verbinden.

3 Verbinde immer Zahlen, die zusammen 10 ergeben.

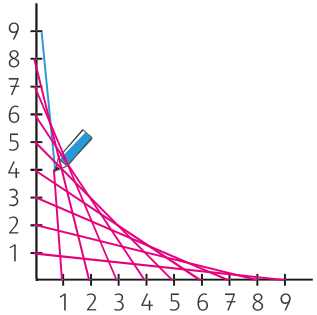

4

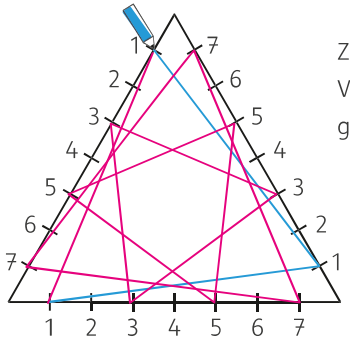

Zeichne Dreiecke. Verbinde jeweils die gleichen ungeraden Zahlen.

5 **a)** Verbinde alle Punkte mit der Zahl 3 mit einem blauen Stift. Wie heißt die Fläche?

Quadrat

b) Verbinde die Punkte 6 – 2 – 6 – 2 – 6 mit einem grünen Stift. Wie heißt die Fläche?

Rechteck

c) Verbinde die Punkte 4 – 1 – 4 – 1 – 4 mit einem roten Stift. Beschreibe die Fläche, die entsteht.

Je 2 Seiten der Fläche sind zueinander parallel.

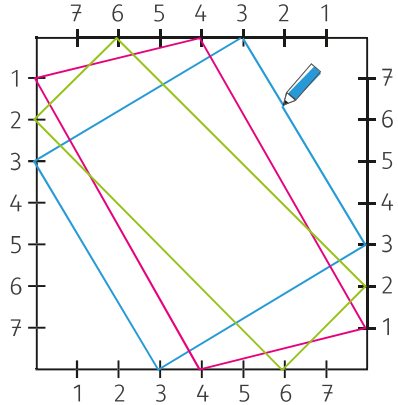

3–5 Punkte zu geometrischen Formen verbinden.