Name: _____ Datum: _____ **LZK 3**

Lernzielkontrolle 3A Seite 1

Klasse: _____ erreichte Punktzahl: _____

1 Schreibe Plus- und Malaufgaben.

___ + ___ + ___ = ___

___ · ___ = ___

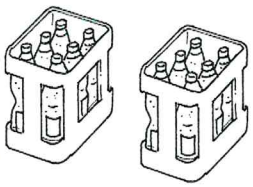

___ + ___ = ___

___ · ___ = ___

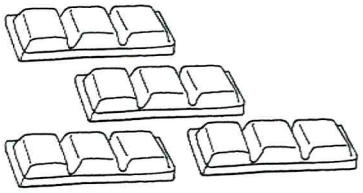

___ + ___ + ___ + ___ = ___

___ · ___ = ___

2 Rechne immer 2 Malaufgaben.



___ · ___ = ___

___ · ___ = ___

___ · ___ = ___

___ · ___ = ___



___ · ___ = ___

___ · ___ = ___

3 Immer 6 Tennisbälle in eine Box.



18 : ___ = ___

Es werden ___ Boxen gebraucht.

Immer 5 Stück Kreide in eine Schachtel.



20 : ___ = ___

Es werden ___ Schachteln gebraucht.

© Österreichischer Bundesverlag GmbH & Co KG, Wien 2018.
Von dieser Kopiervorlage ist die Vervielfältigung für den eigenen Unterrichtsgebrauch gestattet. Rechenrabe Trax 2

Name: _____ Datum: _____ **LZK 3**

Lernzielkontrolle 3A Seite 2

Klasse: _____ erreichte Punktzahl: _____

4 Schreibe Aufgabenfamilien.

15			8			60		
3		5	4		2	6		10
3 ·	___	= ___	___ ·	___	= ___	___ ·	___	= ___
5 ·	___	= ___	___ ·	___	= ___	___ ·	___	= ___
___ :	5	= ___	___ :	___	= ___	___ :	___	= ___
___ :	3	= ___	___ :	___	= ___	___ :	___	= ___

/12

5

1 · 2 = ___	3 · 5 = ___	4 : 2 = ___	5 : 5 = ___
2 · 2 = ___	5 · 5 = ___	20 : 2 = ___	25 : 5 = ___
5 · 2 = ___	8 · 5 = ___	12 : 2 = ___	10 : 5 = ___
10 · 2 = ___	6 · 5 = ___	16 : 2 = ___	35 : 5 = ___
0 · 2 = ___	9 · 5 = ___	8 : 2 = ___	45 : 5 = ___

/10

6 Zeichne das Spiegelbild.

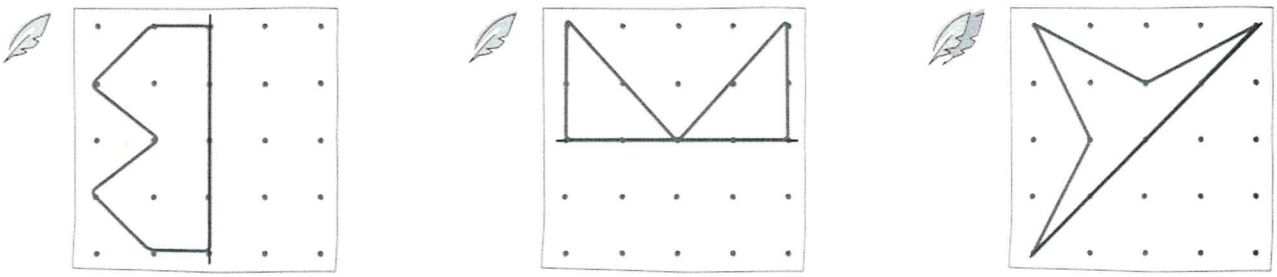

/6

7 Schreibe Aufgabenfamilien.

20			18			___		
5		___	___		6	5		7
___ ·	___	= ___	___ ·	___	= ___	___ ·	___	= ___
___ ·	___	= ___	___ ·	___	= ___	___ ·	___	= ___
___ :	___	= ___	___ :	___	= ___	___ :	___	= ___
___ :	___	= ___	___ :	___	= ___	___ :	___	= ___

/12

© Österreichischer Bundesverlag GmbH & Co KG, Wien 2018.
Von dieser Kopiervorlage ist die Vervielfältigung für den eigenen Unterrichtsgebrauch gestattet. Rechenrabe Trax 2